Géographie

Lecture de paysage

Réel (R) ou imaginaire (I) ?

I

R

I

R

Géographie

Lecture de paysage

Les types de documents

Peinture, schéma, photo ou dessin ?

Photo

Peinture

Dessin



Schém

Géographie

Lecture de paysage

La ligne d'horizon.

C'est la ligne qui semble séparer le ciel de la terre, lorsqu'on regarde au loin. Elle peut être droite, ondulée ou brisée, cela dépend du type de paysage observé.

Trace les lignes d'horizon en vert







Géographie

Lecture de paysage



Les prises de vue

La photo a-t-elle été prise du ciel (photo aérienne) ou du sol ?

Entoure la bonne réponse.



Photo aérienne / prise du sol

Photo aérienne / prise du sol

A-> Aérienne S -> Sol

A

A



S

S



A



S

A

S

Lecture de paysage

Les différents plans

Un paysage peut se lire selon **3 plans :**

a) l'avant-plan : ce que je vois devant (directement)
b) le second plan : ce que je vois au milieu de l'image
c) l'arrière plan : c'est le fond de la photo.

Sur la photo essaie de trouver les différents plans (explique ce que tu vois)

a) L'avant-plan : Un piquet en bois et un petit arbre

b) Le second plan : la plage de sable

c) L'arrière-plan : la mer

a) L'avant-plan : un champ avec des meules de foin

b) Le second plan : des arbres et un pylône électrique

c) L'arrière-plan : le ciel et un village

a) L'avant-plan : un champ

b) Le second plan : des cheminées de centrale électrique

c) L'arrière-plan : le ciel

Lecture de paysage

Clés d'observation d'un paysage

Pour observer le paysage, je dois regarder divers éléments :

a) le relief

Complète le dessin avec les mots soulignés

Les **plateaux** et les **plaines** sont des pays plats.

Le plateau est plus élevé (altitude) que la plaine.

Dans les plaines, les cours d'eau ne s'enfoncent pas profondément.

Les **collines** sont constituées de bosses de terrain arrondi.

Le creux qui sépare deux collines est un **vallon.**

Les **montagnes** sont des énormes amas de terre et de rochers aux formes variées et avec des sommets pointus.

La bande de terre le long de laquelle la terre entre en contact avec la mer s'appelle le **littoral** (ou la côte).

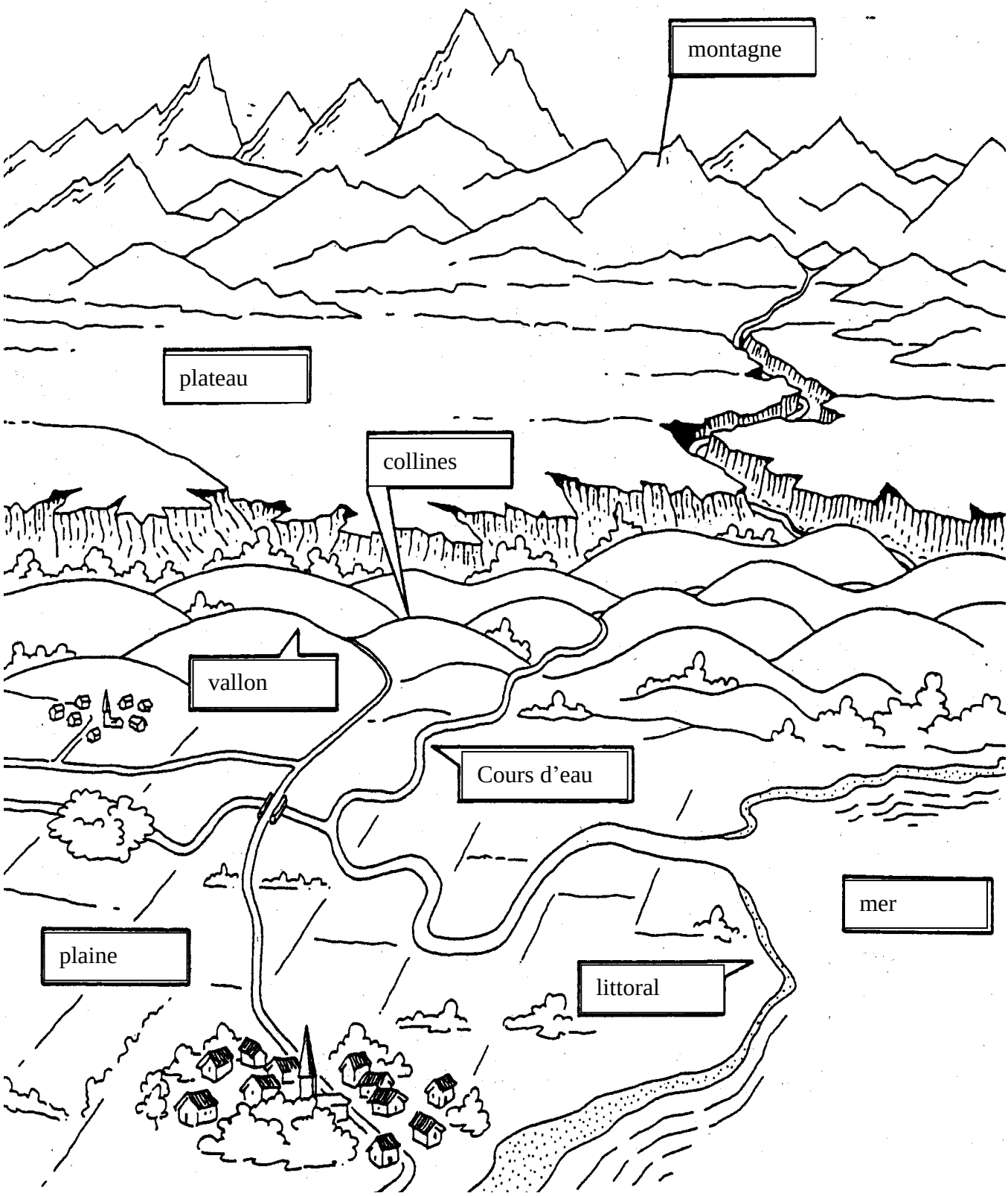
montagne
plateau
collines
vallon
Cours d'eau
mer
plaine
littoral

b) les éléments humains et les éléments naturels

Les éléments naturels peuvent être entièrement naturels (montagne, rivière). Ils peuvent aussi être créés ou entretenus par l'homme (haie, bois, champs...).



Les éléments naturels (N) et humains (H) peuvent être présents ensembles dans un même paysage.

En plus des voies de communication (routes), les éléments humains peuvent avoir plusieurs fonctions :

- une fonction **résidentielle (R)** : les maisons, appartements.

- une fonction de **service (S)** : les boutiques, la police.

- une fonction de **production (P)** : les fermes, les usines.

- une fonction de **loisir (L)** : les parcs d'attractions, les musées.

Ecris la fonction illustrée par chaque photo.

L



S

P

P

R



S

L

P

L



R

S

L

L'homme aménage son environnement (des espaces humains) en fonction de ses activités. Sous chacun de ces lieux, indique une intention qui est poursuivie.

Choisis parmi ces types de fonctions

Attention : parfois plusieurs options sont possibles.

1) Loisir 2) Service 3) Production 4) Résidentielle

		
service	service	loisir
production	loisir	résidentielle
		
loisir	service	résidentielle

Un espace de services est un endroit où les gens peuvent se rendre pour obtenir un service (magasin, hôpital, banque, …).
Un espace de production est un endroit dans lequel on produit ou construit des objets. (usines, …)
Un espace de loisirs permet aux gens de se détendre, de s'amuser (parc d'attraction, …)

Comparons des paysages

Des fonctions identiques et pourtant des paysages bien différents

Deux marchés

La photo A peut représenter un marché de nos régions. Oui – non J'en suis sûr(e) parce que L'étalage ne ressemble pas à ceux que nous connaissons ici. La vendeuse n'est pas habillée comme chez nous. Je n'en suis pas sûr(e) parce que	La photo B peut représenter un marché de nos régions. Oui – non J'en suis sûr(e) parce que L'étalage ressemble à ceux que nous connaissons ici. Les gens sont habillés comme chez nous. Je n'en suis pas sûr(e) parce que

Ecris le nom de trois marchandises que l'on pourrait trouver sur ces deux marchés.

Des fruits des légumes des vêtements

Deux ports

Cette photo a pu être prise en Belgique. Oui – Non Deux éléments qui le prouvent : Bateaux à voile Bâtiment de la côte belge	Cette photo a pu être prise en Belgique. Oui – Non Deux éléments qui le prouvent : Bateaux de pêche Bâtiment de pêcheurs

Deux façons de cultiver

A

B

Une de ces photos a été prise dans nos régions. C'est la photo A – B
Écris deux détails qui le prouvent.
Tracteur agricole et camion d'ici et culture de pommes de terre
L'autre photo vient d'un pays lointain (l'Afrique). C'est la photo A – B
Écris deux détails qui le prouvent.
Tenues vestimentaires et pas de tracteur, mais travail à la main

Voici d'autres photos. Lesquelles peut –on associer à la Belgique ? Coche – les.





c) la végétation

***Désertique** : peu ou pas de végétation (arbre, herbe, …), sol fait de sable, de rochers.
***Forestier** : beaucoup d'arbres regroupés et nombreux
***Rural** : quelques champs, des maisons, un village, des animaux, ….
***Urbain** : c'est la ville, des maisons nombreuses, des usines, des magasins, des buildings, beaucoup de voitures, peu de végétation.





d) l'hydrographie (l'eau)

Relie aux définitions adéquates

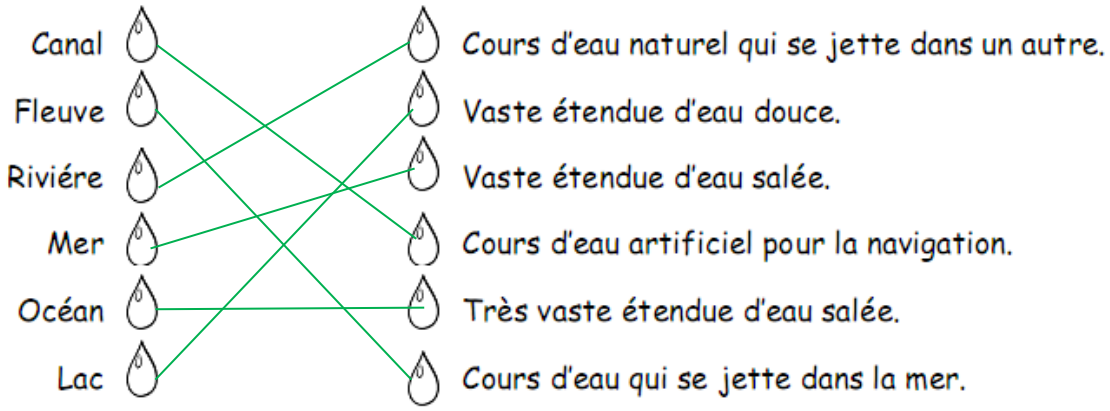

Utilise le dictionnaire si nécessaire.

Complète le dessin avec les mots soulignés

Une source donne naissance au fleuve.

Il coule en descendant d'une région élevée vers une région basse ou en termes de géographe de l'amont vers l'aval.

En suivant le sens du courant, on a, à sa droite la rive droite et à sa gauche, la rive gauche.

D'autres rivières apportent leurs eaux au fleuve, ce sont ses affluents.

L'endroit où les cours d'eau se rencontrent est le confluent.

Parfois, le fleuve forme des boucles : ce sont les méandres.

Le fleuve se jette dans la mer par une embouchure ou un delta. Le delta est une embouchure à plusieurs bras.

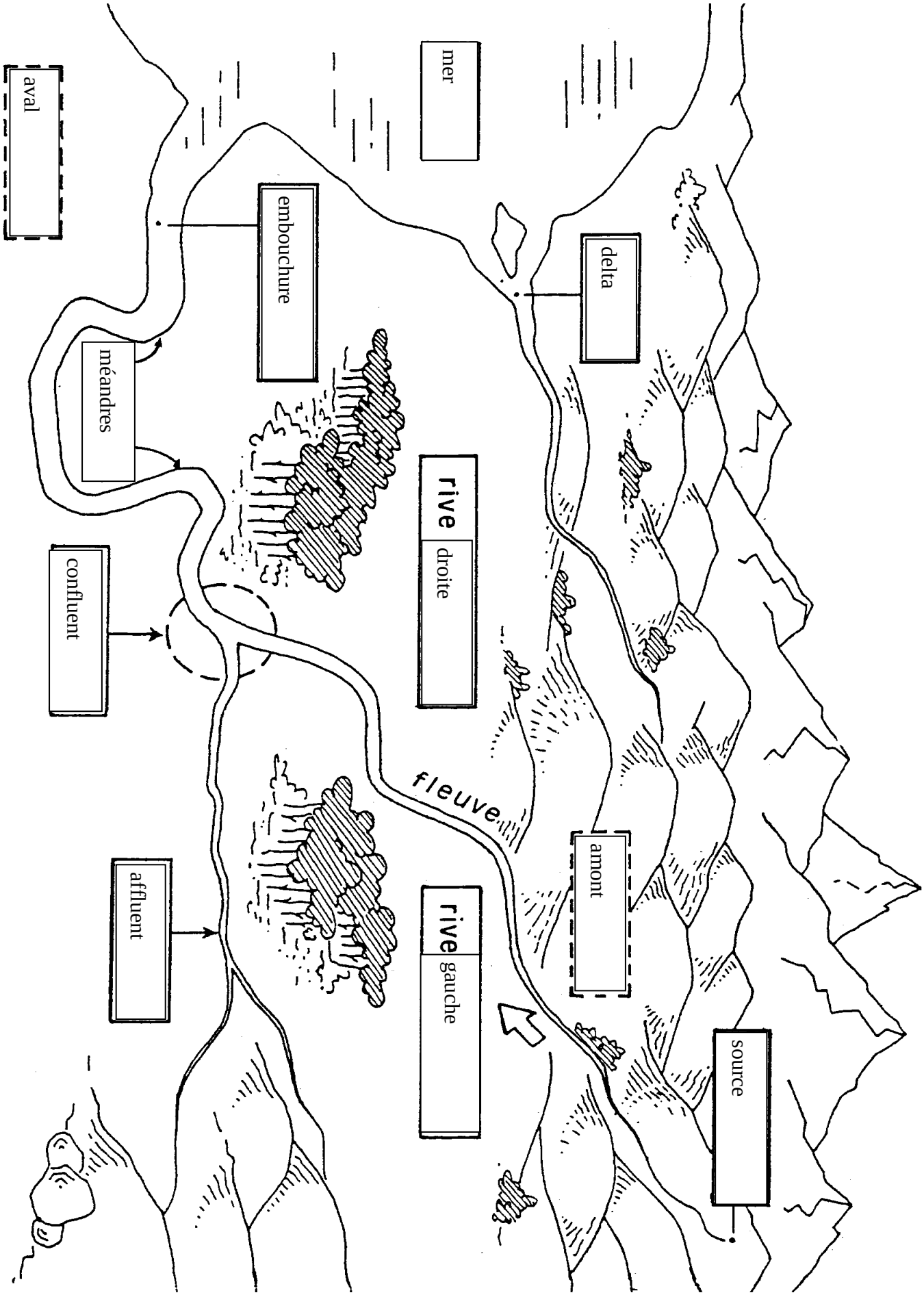
source
amont
rive gauche
fleuve
rive droite
delta
mer
embouchure
aval
affluent
confluent
méandres